2000 年广东

1. 最近几年，原子核科学家在超重元素岛的探测方面取得重大进展。1996 年科学家们在研究某两个重离子结合成超重元素的反应时，发现生成的超重元素的核 ${}^{A}_{Z}\mathrm{X}$ 经过 6 次 α 衰变后的产物是 ${}^{253}_{100}\mathrm{Fm}$。由此，可判定生成的超重元素的原子序数和质量数分别是 (D)

A. 124、259　　B. 124、265　　C. 112、265　　D. 112、277

> 核反应方程满足质量数和核电荷数守恒。每经过一次 α 衰变质量数减少 4，有 $A=253+4\times6=277$；又每经过一次 α 衰变核电荷数减少 2，有 $Z=100+6\times2=112$。超重元素的原子序数为 112，质量数为 277，故 D 正确。

2. 对于一定量的理想气体，下列四个论述中正确的是 (B)

A. 当分子热运动变剧烈时，压强必变大

B. 当分子热运动变剧烈时，压强可以不变

C. 当分子间的平均距离变大时，压强必变小

D. 当分子间的平均距离变大时，压强必变大

> 影响理想气体压强的因素有温度、体积。热运动加剧时温度升高，但无法确定气体体积的变化，压强的变化就不一定，故 A 错误，B 正确；由 C、D 两项可判断气体体积变大，但温度的变化不确定，压强的变化也就不确定，故 C、D 错误。

3. S_1 和 S_2 分别表示劲度系数为 k_1 和 k_2 的两根弹簧，$k_1>k_2$。a 和 b 表示质量分别为 m_a 和 m_b 的两个小物体，$m_a>m_b$，将弹簧与物块按如图所示方式悬挂起来，现要求两根弹簧的总长度最大，则应使 (D)

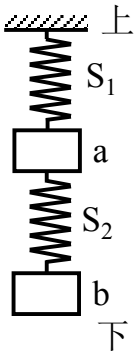

A. S_1 在上，a 在上　　B. S_1 在上，b 在上

C. S_2 在上，a 在上　　D. S_2 在上，b 在上

> 本题原卷及材料中未提供详解，待补充。

4. 对于水平放置的平行板电容器，下列说法正确的是（BCD）

A. 将两极板的间距加大，电容将增大

B. 将两极板平行错开，使正对面积减小，电容将减小

C. 在下板的内表面上放置一面积和极板相等、厚度小于极板间距的陶瓷板，电容将增大

D. 在下板的内表面上放置一面积和极板相等、厚度小于极板间距的铝板，电容将增大

> 对于平行板电容器有 $C=\frac{\varepsilon S}{4\pi kd}$，可知 A 错误，B、C 正确；当插入金属板时，由静电感应，相当于电容器的两板距离变小，故 D 正确。

5. 如图所示，一气缸竖直倒放，气缸内有一质量不可忽略的活塞，将一定量的理想气体封在气缸内，活塞与气缸壁无摩擦，气体处于平衡状态，现保持温度不变把气缸稍微倾斜一点，在达到平衡后，与原来相比，则（AD）

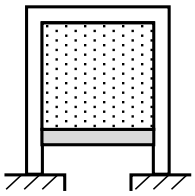

A. 气体的压强变大　B. 气体的压强变小　C. 气体的体积变大　D. 气体的体积变小

> 本题原卷及材料中未提供详解，待补充。

6. 图为 X 射线管的结构示意图，E 为灯丝电源，要使射线管发出 X 射线，须在 K、A 两电极间加上几万伏的直流高压（D）

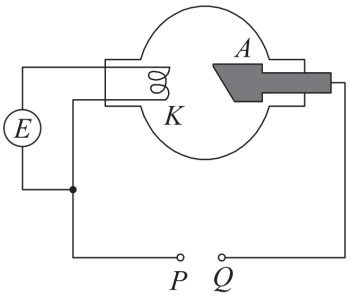

A. 高压电源正极应接在 P 点，X 射线从 K 极发出

B. 高压电源正极应接在 P 点，X 射线从 A 极发出

C. 高压电源正极应接在 Q 点，X 射线从 K 极发出

D. 高压电源正极应接在 Q 点，X 射线从 A 极发出

> 伦琴射线是高速电子流撞到固体的表面而形成的。在题图中，K 为阴极，其作用是发射电子，A 是阳极，也叫对阴极。在 A、K 间加上高电压，将电子从 K 加速到 A，高

> 速电子撞到 A 后，辐射出 X 射线，故 D 正确。

7. 一列简谐横波沿 x 轴正方向传播，在 x 轴上相距 2 cm 的 P 点和 Q 点的振动图线均如图所示，由此可以确定这列波的 (AC)

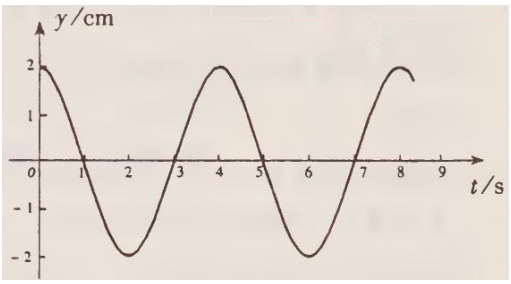

A. 振幅　　B. 波长　　C. 频率　　D. 波速

> 本题原卷及材料中未提供详解，待补充。

8. A 与 B 是两束平行的单色光，它们从空气射入水中的折射角分别为 r_A、r_B，若 $r_A > r_B$，则 (AB)

A. 在空气中 A 的波长大于 B 的波长

B. 在水中 A 的传播速度大于 B 的传播速度

C. A 的频率大于 B 的频率

D. 在水中 A 的波长小于 B 的波长

> 因 $r_A > r_B$，所以 $n_A < n_B$，$f_A < f_B$。在空气中光速相同，由 $\lambda = \frac{c}{f}$ 知 $\lambda_A > \lambda_B$，故 A 正确；又因为 $v = \frac{c}{n}$，在水中 A 光的传播速度大于 B 光的传播速度，故 B 正确，C、D 错误。

9. 如图所示，A 为理想电流表，V_1 和 V_2 为理想电压表，R_1 为定值电阻，R_2 为可变电阻，电池 E 内阻不计，则 (BCD)

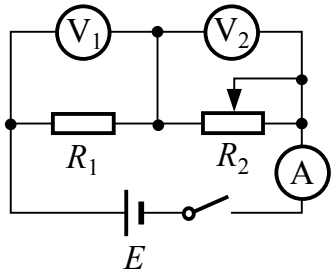

A. R_2 不变时，V_2 读数与 A 读数之比等于 R_1

B. R_2 不变时，V_1 读数与 A 读数之比等于 R_1

C. R_2 改变一定量时，V_2 读数的变化量与 A 读数的变化量之比的绝对值等于 R_1

D. R_2 改变一定量时，V_1 读数的变化量与 A 读数的变化量之比的绝对值等于 R_1

本题原卷及材料中未提供详解，待补充。

10. 图为一空间探测器的示意图，P_1、P_2、P_3、P_4 是四个喷气发动机，P_1、P_3 的连线与空间一固定坐标系的 x 轴平行，P_2、P_4 的连线与 y 轴平行。每台发动机开动时，都能向探测器提供推力，但不会使探测器转动。开始时，探测器以恒定的速率 v_0 向正 x 方向平动，要使探测器改为向正 x 偏负 y 60° 的方向以原来的速率 v_0 平动，则可 (A)

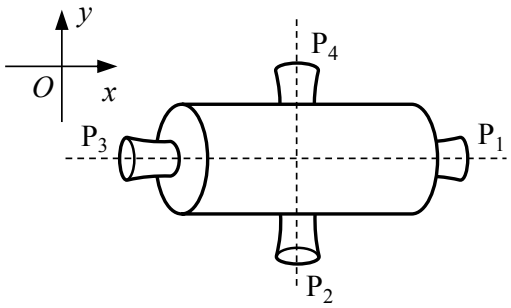

A. 先开动 P_1 适当时间，再开动 P_4 适当时间

B. 先开动 P_3 适当时间，再开动 P_2 适当时间

C. 开动 P_4 适当时间

D. 先开动 P_3 适当时间，再开动 P_4 适当时间

P_1 发动时，使探测器得到 $-x$ 方向的速度；P_4 发动时，使探测器得到 $-y$ 方向的速度。要使探测器沿 $+x$ 偏 $-y$ 60° 方向以原来的速率 v_0 平动，就必须使 $+x$ 方向速度减小，使 $-y$ 方向速度增加，所以要开动 P_1 适当时间，再开动 P_4 适当时间，故 A 正确。

11. 裂变反应是目前核能利用中常用的反应。以原子核 $^{235}_{92}\mathrm{U}$ 为燃料的反应堆中，当 $^{235}_{92}\mathrm{U}$ 俘获一个慢中子后发生的裂变反应可以有多种方式，其中一种可表示为

$$^{235}_{92}\mathrm{U} + {}^{1}_{0}\mathrm{n} \longrightarrow {}^{139}_{54}\mathrm{Xe} + {}^{94}_{38}\mathrm{Sr} + 3\,{}^{1}_{0}\mathrm{n}$$

235.0439　　1.0087　　138.9178　　93.9154

反应方程下方的数字是中子及有关原子的静止质量（以原子质量单位 u 为单位）。已知 1 u 的质量对应的能量为 9.3×10^2 MeV，此裂变反应释放出的能量是 1.8×10^2 MeV。

1.8×10^2

由题意可计算核反应前后的质量亏损为 $\Delta m = 235.0439 + 1.0087 - 138.9178 - 93.9154 - 3 \times 1.0087 = 0.1933\,\mathrm{u}$，故此裂变释放出的能量为 $\Delta E = \Delta m c^2 = 0.1933 \times 9.3 \times 10^2\,\mathrm{MeV} \approx 1.8 \times 10^2\,\mathrm{MeV}$。

评分标准：本题 5 分，答案正确给 5 分，答错或不答给 0 分。

12. 空间存在以 ab、cd 为边界的匀强磁场区域，磁感应强度大小为 B，方向垂直纸面向外，区域宽为 l_1。现有一矩形线框处在图中纸面内，它的短边与 ab 重合，长度为 l_2，长边的长度为 $2l_1$，如图所示。某时刻线框以初速度 v 沿与 ab 垂直的方向进入磁场区域，同时某人对线框施以作用力，使它的速度大小和方向保持不变。设该线框的电阻为 R。从线框开始进入磁场到完全离开磁场的过程中，人对线框作用力所做的功等于 $\frac{2B^2l_2^2l_1v}{R}$。

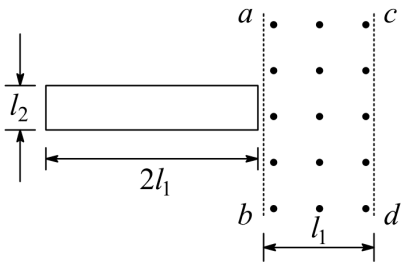

$\frac{2B^2l_2^2l_1v}{R}$

由题意知，只有线框右边进入磁场和左边离开磁场的过程中，线框中才有感应电流，外力才做功；当左右两边都不在磁场中时，线框中无感应电流，外力不做功。由功能关系得 $W = 2BIl_2 \cdot l_1 = 2Bl_1l_2 \cdot \frac{Bl_2v}{R} = \frac{2B^2l_1l_2^2v}{R}$。

13. 假设在 NaCl 蒸气中存在由钠离子和氯离子靠静电相互作用构成的单个氯化钠 NaCl 分子。若取 Na^+ 与 Cl^- 相距无限远时其电势能为零，一个 NaCl 分子的电势能为 $-6.1\,eV$。已知使一个中性钠原子 Na 最外层的电子脱离钠原子而形成钠离子所需的能量（电离能）为 $5.1\,eV$，使一个中性氯原子 Cl 结合一个电子形成氯离子所放出的能量（亲和能）为 $3.8\,eV$。由此可算出，在将一个 NaCl 分子分解成彼此远离的中性钠原子 Na 和中性氯原子 Cl 的过程中，外界供给的总能量等于 4.8 eV。

4.8

由题意可知，将 NaCl 变成 Na^+ 和 Cl^- 吸收能量为 $6.1\,eV$，再将 Na^+ 变成 Na 放出 $5.1\,eV$ 的能量，Cl^- 离子变成氯原子 Cl 吸收 $3.8\,eV$，所以将 NaCl 分解成中性的钠原子 Na 和中性的氯原子 Cl 的过程中，外界供给的能量等于 $6.1 + 3.8 - 5.1 = 4.8\,eV$。

正负电荷之间相对位置变化，引起两个电荷电势能的变化。当距离变大时，电场力做负功，需要吸收能量：先把 NaCl 变成 Na^+ 和 Cl^- 吸收能量 $6.1\,eV$，再将 Na^+ 变成 Na 的过程放出能量 $5.1\,eV$，同时将 Cl^- 变成 Cl，电场力做负功电势能增大，也就是吸收能量。对于整个过程可以看成是由两个吸收能量和一个放出能量的过程组成的。

评分标准：本题 5 分，答案正确给 5 分，答错或不答给 0 分。

14. 某同学用图 1 所示装置通过半径相同的 A、B 两球的碰撞来验证动量守恒定律。图中 PQ 是斜槽，QR 为水平槽。实验时先使 A 球从斜槽上某一固定位置 G 由静止开始滚

下，落到位于水平地面的记录纸上，留下痕迹，重复上述操作 10 次，得到 10 个落点痕迹。再把 B 球放在水平槽上靠近槽末端的地方，让 A 球仍从位置 G 由静止开始滚下，和 B 球碰撞后，A、B 球分别在记录纸上留下各自的落点痕迹，重复这种操作 10 次。图 1 中 O 点是水平槽末端 R 在记录纸上的垂直投影点，B 球落点痕迹如图 2 所示，其中米尺水平放置，且平行于 G、R、O 所在的平面，米尺的零点与 O 点对齐。

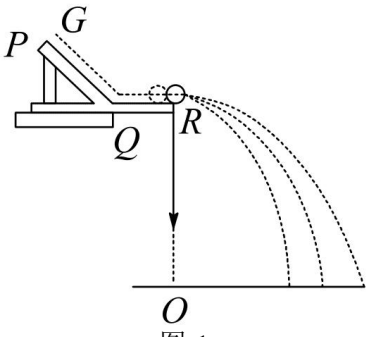

图 1

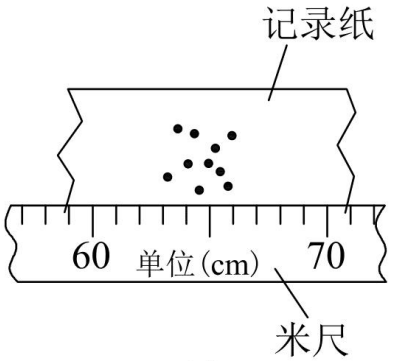

图 2

(1) 碰撞后 B 球的水平射程应取为 64.7 cm。

(2) 在以下选项中，哪些是本次实验必须进行的测量？答：A、B、D（填选项号）。

A. 水平槽上未放 B 球时，测量 A 球落点位置到 O 点的距离

B. A 球与 B 球碰撞后，测量 A 球落点位置到 O 点的距离

C. 测量 A 球或 B 球的直径

D. 测量 A 球和 B 球的质量（或两球质量之比）

E. 测量 G 点相对于水平槽面的高度

(1) 64.7 (2) ABD

（1）图中画出了 B 球的 10 个落点，实验中应取平均位置。方法是用最小的圆将所有点圈在里面，圆心位置即为落点平均位置；找准平均位置，读数时应在刻度尺的最小刻度后面再估读一位。答案 64.7（3 分，答数在 64.2 到 65.2 范围内的都给分。）

（2）A、B 两球都从 O 点开始做平抛运动，且两球平抛时间相同，以平抛时间作为时间单位，则平抛的水平距离在数值上等于平抛初速度。设 A 未碰 B 时平抛水平位移 s_A，A、B 相碰后，A、B 两球的水平位移分别为 s'_A、s'_B，A、B 质量分别为 m_A、m_B，则碰前 A 的动量可写成 $m_A s_A$，碰后 A、B 总动量为 $m_A s'_A + m_B s'_B$。要验证动量是否守恒，即验证以上两动量是否相等，所以该实验应测量的物理量有 m_A、m_B、s'_A、s'_B，故 A、B、D 正确。答案 ABD（3 分，不是 ABD 的均给零分。）

15. 如图，一光源位于金属圆筒内部轴线上 A 点，与筒 B 端的距离为 d，d 无法直接测量。另有凸透镜、光屏、米尺及带支架的光具座。现用这些器材测量 d。为此，先将圆筒、凸透镜、光屏依次放在光具座支架上，令圆筒轴线与透镜主光轴重合，屏与光源的距离足

够远，使得移动透镜时，可在屏上两次出现光源的像，将圆筒及光屏位置固定。由光路的可逆性可知，第一次成像的像距等于第二次成像的物距。然后进行以下的测量：移动透镜，当屏上得到光源清晰的像时，测量像距 v；继续移动透镜，当屏上得到光源的另一个清晰的像时，测量端面 B 与透镜的距离 l。

用测得的物理量可得 $d = v - l$。（应说明各符号所代表的物理量）

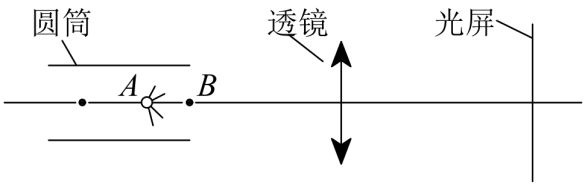

(1) 移动透镜，当屏上得到光源清晰的像时，测量像距 v；继续移动透镜，当屏上得到光源的另一个清晰的像时，测量端面 B 与透镜的距离 l。 (2) $d = v - l$

移动透镜，当屏上得到光源清晰的像时，测量像距 v；继续移动透镜，当屏上得到光源的另一个清晰的像时，测量端面 B 与透镜的距离 l。

$d = v - l$（6 分。完全答对给 6 分，否则不给分。如果测量方法与参考答案不同，但结果正确，同样给分。）

16. 从下表中选出适当的实验器材，设计一电路来测量电流表 A_1 的内阻 r_1，要求方法简捷，有尽可能高的测量精度，并能测得多组数据。

器材（代号）	规格
电流表（A_1）	量程 10 mA，内阻 r_1 待测（约 40 Ω）
电流表（A_2）	量程 500 μA，内阻 $r_2 = 750\,\Omega$
电压表（V）	量程 10 V，内阻 $r_3 = 10\,\mathrm{k}\Omega$
电阻（R_1）	阻值约 100 Ω，作保护电阻用
滑动变阻器（R_2）	总阻值约 50 Ω
电池（E）	电动势 1.5 V，内阻很小
电键（K）	
导线若干	

（1）在虚线方框中画出电路图，标明所用器材的代号。

（2）若选测量数据中的一组来计算，则所用的表达式为 $r_1 = \frac{I_2}{I_1} r_2$，式中各符号的意义是：$I_1$ 表示通过电流表 A_1 的电流，I_2 表示通过电流表 A_2 的电流，r_2 表示电流表 A_2 的内阻。

(1) 如图所示　(2) $r_1 = \frac{I_2}{I_1} r_2$

（1）测量电路如图所示（5 分。若电阻 R_1 与电池串联，不扣分；若 R_2 用作限流电阻，正确的同样给分。）

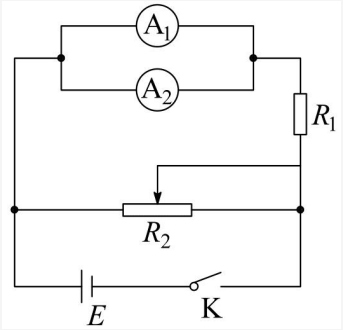

（2）直接判定必选的器材是电池 E、开关 K、导线若干。由 A_1 量程是 10 mA，r_1 约为 40 Ω，E 电动势 1.5 V，可判定必须再选电阻 R_1 作为限流电阻，才保证通过 A_1 的电流不至于超过 10 mA。

要测 A_1 的电阻，通过 A_1 的电流值 I_1 可由 A_1 读出，只要能测出 A_1 两端的电压 U_1，则可求出 $r_1 = \frac{U_1}{I_1}$。

测电压要用电压表，但是若将电压表与 A_1 并联，电流表 A_1 上的电压最多是 $U_1 = \frac{E}{R_1 + r_1} \cdot r_1 = \frac{1.5}{100+40} \times 40\,\mathrm{V} \approx 0.43\,\mathrm{V}$，而电压表的量程是 10 V，对 0.43 V 的电压来说，电压表的指针只是稍微偏转了一点点，这样测得阻值误差太大，不符合题目要求，因而不能用电压表测电压。

由题意知电流表 A_2 的内阻已知，通过电流表 A_2 的电流 I_2 可以算出电流表 A_2 两端的电压，因而 A_2 两端的电压 $U_2 = I_2 r_2$。

若将 A_1 与 A_2 并联，则 U_2 即 A_1 两端的电压，由此可以求出 A_1 的内阻 $r_1 = \frac{U_2}{I_1} = \frac{I_2 r_2}{I_1}$，式中 I_1 是 A_2、A_1 并联时通过 A_1 的电流，滑动变阻器 R_2 限流、分压接法均可。

（2）$r_1 = \frac{I_2}{I_1} r_2$，$I_1$ 表示通过电流表 A_1 的电流，I_2 表示通过电流表 A_2 的电流，r_2 表示电流表 A_2 的内阻（3 分，未说明 r_2 的不扣分。）

17. 一横截面积为 S 的气缸水平放置，固定不动，气缸壁是导热的。两个活塞 A 和 B 将气缸分隔为 1、2 两气室，达到平衡时 1、2 两气室体积之比为 3 : 2，如图所示。在室温不变的条件下，缓慢推动活塞 A，使之向右移动一段距离 d。求活塞 B 向右移动的距离。不计活塞与气缸壁之间的摩擦。

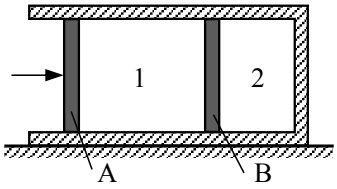

$x = \frac{2}{5}d$

因气缸水平放置，又不计活塞的摩擦，故平衡时两气室内的压强必相等。设初态时气室内压强为 p_0，气室 1、2 的体积分别为 V_1 和 V_2；在活塞 A 向右移动 d 的过程中活塞 B 向右移动的距离为 x；最后气缸内压强为 p。因温度不变，分别对气室 1 和 2 的气体运用玻意耳定律，得

气室 1：$p_0V_1 = p(V_1 - Sd + Sx)$ ①

气室 2：$p_0V_2 = p(V_2 - Sx)$ ②

由①、②两式解得 $x = \frac{V_2}{V_1+V_2}d$ ③

由题意 $\frac{V_1}{V_2} = \frac{3}{2}$，得 $x = \frac{2}{5}d$ ④

评分标准：本题 11 分，①式 4 分，②式 3 分，得出③式 2 分，算出④式再给 2 分。

18. 一小型发电机内的矩形线圈在匀强磁场中以恒定的角速度 ω 绕垂直于磁场方向的固定轴转动。线圈匝数 $n = 100$。穿过每匝线圈的磁通量 Φ 随时间按正弦规律变化，如图所示。发电机内阻 $r = 5.0\,\Omega$，外电路电阻 $R = 95\,\Omega$。已知感应电动势的最大值 $E_\mathrm{m} = n\omega\Phi_\mathrm{m}$，其中 Φ_m 为穿过每匝线圈磁通量的最大值。求串联在外电路中的交流电流表（内阻不计）的读数。

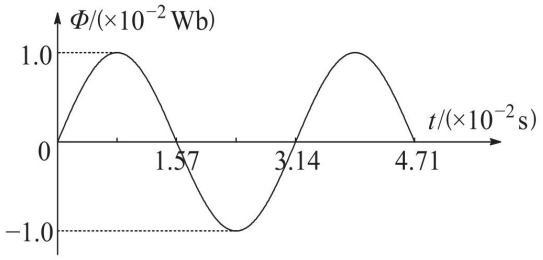

$I = 1.4\,\mathrm{A}$

已知感应电动势的最大值

$E_\mathrm{m} = n\omega\Phi_\mathrm{m}$ ①

设线圈在磁场中转动的周期为 T，则有

$\omega = \frac{2\pi}{T}$ ②

根据欧姆定律，电路中电流的最大值为

$I_\mathrm{m} = \frac{E_\mathrm{m}}{R+r}$ ③

设交流电流表的读数为 I，它是电流的有效值，根据有效值与最大值的关系，有

$I = \frac{1}{\sqrt{2}}I_\mathrm{m}$ ④

由题给的 $\Phi - t$ 图线可读得

$\Phi_{\mathrm{m}} = 1.0 \times 10^{-2}\,\mathrm{Wb}$ ⑤

$T = 3.14 \times 10^{-2}\,\mathrm{s}$ ⑥

解以上各式，并代入数据，得

$I = 1.4\,\mathrm{A}$ ⑦

评分标准：本题 12 分，②式 1 分，③式 2 分，④式 3 分，⑤式 2 分，⑥式 2 分，⑦式 2 分。

19. 面积很大的水池，水深为 H，水面上浮着一正方体木块，木块边长为 a，密度为水的 $\frac{1}{2}$，质量为 m，开始时，木块静止，有一半没入水中，如图所示，现用力 F 将木块缓慢地压到池底，不计摩擦，求：

(1) 从木块刚好完全没入水中到停在池底的过程中，池水势能的改变量。

(2) 从开始到木块刚好完全没入水的过程中，力 F 所做的功。

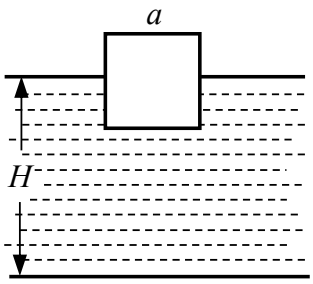

(1) $\Delta E = 2mg(H-a)$ (2) $W = \frac{1}{4}mga$

（1）图 1 中 1 和 2 分别表示木块在刚没入水中时和到达池底时的位置。木块从 1 移到 2，相当于使同体积的水从 2 移到 1，所以池水势能的改变量等于这部分水在位置 1 和在位置 2 的势能之差。因为木块密度为水的 $\frac{1}{2}$，木块的质量为 m，所以与木块同体积的水的质量为 $2m$。故池水势能的改变量

$\Delta E = 2mg(H - \frac{a}{2}) - 2mg \cdot \frac{a}{2} = 2mg(H-a)$ ①

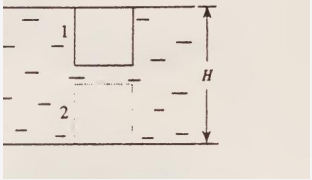

图 1

（2）因水池面积很大，可忽略因木块压入水中所引起的水深变化。木块刚好完全没入水中时，图 2 中原来处于划斜线区域的水被排开，后果等效于使这部分水平铺于水

面，这部分水的质量为 m，其势能的改变量为

$\Delta E_{水}=mgH-mg(H-\frac{3}{4}a)=\frac{3}{4}mga$ ②

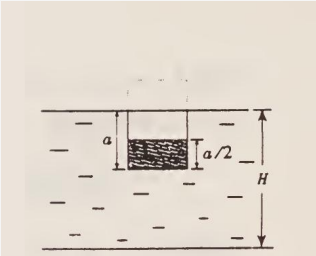

图 2

木块势能的改变量为

$\Delta E_{木}=mg(H-\frac{a}{2})-mgH=-\frac{1}{2}mga$ ③

根据功能原理，力 F 所做的功

$W=\Delta E_{水}+\Delta E_{木}=\frac{1}{4}mga$ ④

评分标准：本题 13 分。第（1）问 4 分，①式 4 分，有任何错误不给分；第（2）问 9 分，其中②式 4 分，③式 3 分，④式 2 分。

20. 2000 年 1 月 26 日我国发射了一颗同步卫星，其定点位置与东经 98° 的经线在同一平面内。若把甘肃省嘉峪关处的经度和纬度近似取为东经 98° 和北纬 $\alpha=40°$，已知地球半径 R、地球自转周期 T、地球表面重力加速度 g（视为常量）和光速 c。试求该同步卫星发出的微波信号传到嘉峪关处的接收站所需的时间（要求用题给的已知量的符号表示）。

$t=\frac{\sqrt{\left(\frac{R^2gT^2}{4\pi^2}\right)^{\frac{2}{3}}+R^2-2R\left(\frac{R^2gT^2}{4\pi^2}\right)^{\frac{1}{3}}\cos\alpha}}{c}$

设 m 为卫星质量，M 为地球质量，r 为卫星到地球中心的距离，ω 为卫星绕地心转动的角速度，由万有引力定律和牛顿定律有

$G\frac{mM}{r^2}=mr\omega^2$ ①

式中 G 为万有引力恒量，因同步卫星绕地心转动的角速度 ω 与地球自转的角速度相等，有

$\omega=\frac{2\pi}{T}$ ②

因 $G\frac{Mm}{R^2}=mg$，得

$GM=gR^2$ ③

设嘉峪关到同步卫星的距离为 L，如图所示，由余弦定理

$L=\sqrt{r^2+R^2-2rR\cos\alpha}$ ④

所求时间为

$t=\frac{L}{c}$ ⑤

由以上各式得

$t=\frac{\sqrt{\left(\frac{R^2gT^2}{4\pi^2}\right)^{\frac{2}{3}}+R^2-2R\left(\frac{R^2gT^2}{4\pi^2}\right)^{\frac{1}{3}}\cos\alpha}}{c}$ ⑥

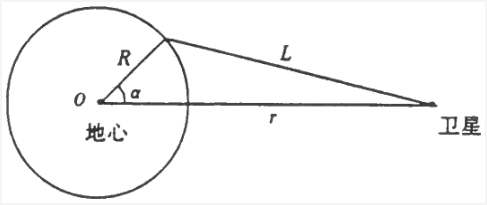

评分标准：本题 12 分，①式 1 分，②式 2 分，③式 1 分，④式 5 分，⑤式 1 分，⑥式 2 分。

21. 图示为一种可用于测量电子电量 e 与质量 m 比值 $\frac{e}{m}$ 的阴极射线管，管内处于真空状态。图中 L 是灯丝，当接上电源时可发出电子。A 是中央有小圆孔的金属板，当 L 和 A 间加上电压时（其电压值比灯丝电压大很多），电子将被加速并沿图中虚直线所示的路径到达荧光屏 S 上的 O 点，发出荧光。P_1、P_2 为两块平行于虚直线的金属板，已知两板间距为 d。在虚线所示的圆形区域内可施加一匀强磁场，已知其磁感强度为 B，方向垂直纸面向外。a、b_1、b_2、c_1、c_2 都是固定在管壳上的金属引线，E_1、E_2、E_3 是三个电压可调并可读出其电压值的直流电源。

(1) 试在图中画出三个电源与阴极射线管的有关引线的连线。

(2) 导出计算 $\frac{e}{m}$ 的表达式，要求用应测物理量及题给已知量表示。

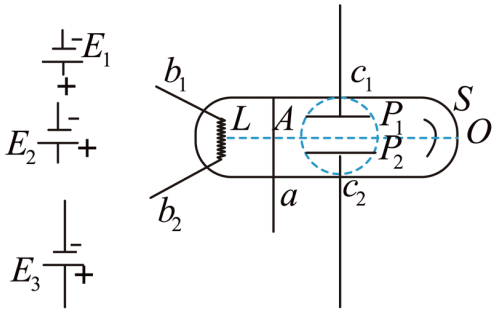

(1) 各电源的连线如图所示。 (2) $\frac{U_3^2}{2U_2B^2d^2}$

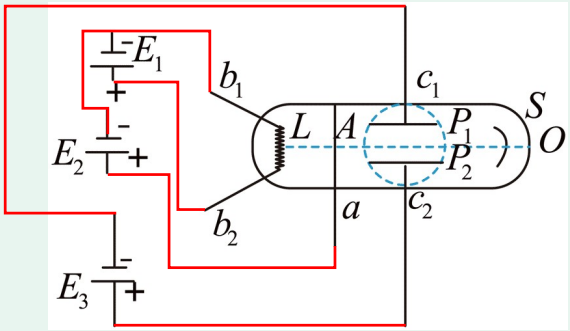

（1）各电源的连线如图。

（2）设加速电压为 U_2，电子加速后穿过小孔的速度为 v，则有

$\frac{1}{2}mv^2 = eU_2$ ①

施加磁场后，要使电子仍打在 O 点，应在 P_1、P_2 之间加上适当的电压 U_3，使电子所受的电场力和洛伦兹力平衡，有

$\frac{U_3}{d}e = eBv$ ②

由①、②两式可解得

$\frac{e}{m} = \frac{U_3^2}{2U_2B^2d^2}$ ③

评分标准：本题 13 分。第（1）问 5 分，其中灯丝电压和加速电压共占 2 分，有错不给分（E_1 正负极接反不扣分）；偏转电压占 3 分，有错不给分。第（2）问 8 分，其中①式 2 分，②式 4 分，③式 2 分。

22. 在原子核物理中，研究核子与核子关联的最有效途径是“双电荷交换反应”。这类反应的前半部分过程和下述力学模型类似。两个小球 A 和 B 用轻质弹簧相连，在光滑的水平直轨道上处于静止状态。在它们左边有一垂直于轨道的固定挡板 P，右边有一小球 C 沿轨道以速度 v_0 射向 B 球，如图所示。C 与 B 发生碰撞并立即结成一个整体 D。在它们继续向左运动的过程中，当弹簧长度变到最短时，长度突然被锁定，不再改变。然后，A 球与挡板 P 发生碰撞，碰后 A、D 都静止不动，A 与 P 接触而不粘连。过一段时间，突然解除锁定（锁定及解除锁定均无机械能损失）。已知 A、B、C 三球的质量均为 m。

(1) 求弹簧长度刚被锁定后 A 球的速度。

(2) 求在 A 球离开挡板 P 之后的运动过程中，弹簧的最大弹性势能。

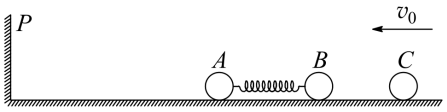

(1) $v_2 = \frac{1}{3}v_0$ (2) $E'_p = \frac{1}{36}mv_0^2$

（1）设 C 球与 B 球粘结成 D 时，D 的速度为 v_1，由动量守恒，有

$mv_0 = (m+m)v_1$ ①

当弹簧压至最短时，D 与 A 的速度相等，设此速度为 v_2，由动量守恒，有

$2mv_1 = 3mv_2$ ②

由①、②两式得 A 的速度

$v_2 = \frac{1}{3}v_0$ ③

（2）设弹簧长度被锁定后，贮存在弹簧中的势能为 E_p，由能量守恒，有

$\frac{1}{2}\cdot 2mv_1^2 = \frac{1}{2}\cdot 3mv_2^2 + E_p$ ④

撞击 P 后，A 与 D 的动能都为零，解除锁定后，当弹簧刚恢复到自然长度时，势能全部转变成 D 的动能，设 D 的速度为 v_3，则有

$E_p = \frac{1}{2}(2m)\cdot v_3^2$ ⑤

当弹簧伸长，A 球离开挡板 P，并获得速度。当 A、D 的速度相等时，弹簧伸至最长。设此时的速度为 v_4，由动量守恒，有

$2mv_3 = 3mv_4$ ⑥

当弹簧伸到最长时，其势能最大，设此势能为 E'_p，由能量守恒，有

$\frac{1}{2}\cdot 2mv_3^2 = \frac{1}{2}\cdot 3mv_4^2 + E'_p$ ⑦

解以上各式得

$E'_p = \frac{1}{36}mv_0^2$ ⑧

评分标准：本题 14 分。第（1）问 5 分，其中①式 2 分，②式 2 分，③式 1 分；第（2）问 9 分，其中④式 2 分，⑤式 3 分，⑥式 1 分，⑦式 2 分，⑧式 1 分。